0012 6кл.

ВСЕРОССИЙСКАЯ ОЛИМПИАДА ШКОЛЬНИКОВ ПО ИСТОРИИ 2023–2024 уч. г.
ШКОЛЬНЫЙ ЭТАП

6 класс

Уважаемый участник!

При выполнении работы внимательно читайте текст заданий. Содержание ответа вписывайте в отведённые поля, записи ведите чётко и разборчиво.

За каждый правильный ответ вы можете получить определённое членами жюри количество баллов, не выше указанной максимальной оценки.

Сумма набранных баллов за все решённые вопросы – итог вашей работы.

Максимальное количество баллов – 100.

Задания считаются выполненными, если вы вовремя сдали их членам жюри.

Время на выполнение работы - 60 минут.

Желаем успеха!

1. Верны ли следующие утверждения («да» – «нет»)? Ответы внесите в таблицу.

1) Еврипид считается одним из основателей древнегреческой математики.

2) Великая Китайская стена начала строиться в то время, когда существовала Римская республика.

3) В рамках древнегреческой колонизации Причерноморья были построены города на территории современной Российской Федерации.

4) Солон является одним из основателей древнегреческой демократии.

5) К концу I века н. э. Римская империя полностью контролировала территорию современной Германии.

6) Фраза «Карфаген должен быть разрушен» характеризует одно из направлений внешней политики Александра Македонского.

7) Юлий Цезарь был первым диктатором Рима.

8) При Константине Великом христианство было официально разрешено на территории Римской империи.

ДОКУМЕНТ ПОДПИСАН
ЭЛЕКТРОННОЙ ПОДПИСЬЮ
Сертификат: 00E74D8BBD50B093350D8E16A5B124385F
Владелец: Тубейкина Елена Анатольевна
Действителен: с 31.07.2023 до 23.10.2024

Ответ

1	2	3	4	5	6	7	8
нет	нет	нет	да	нет	да	да	да

Максимум за задание – 16 баллов.

8 б.

2. Перед вами фрагмент стихотворения русского поэта М. Волошина, посвящённого известнейшему архитектурному ансамблю. Вместо обозначенных буквами пропусков в тексте, запишите пропущенные названия, относящиеся к данному ансамблю. Укажите, каким цифрам соответствуют эти названия на изображении его реконструкции.

Серый шифер. Белый тополь.
Пламенеющий залив.
В серебристой мгле олив
Усечённый холм – Акрополь (А).
Ряд рассеченных ступеней,
Портик тяжких Пропилей (Б).
И за трудами камений

В сетке лёгких синих теней
Искры мраморных аллей.

Луч заката брызнул снизу…

Над долиной сноп огней…

Рдеет пламенем над ней он –

В горне бронзовых лучей
Загорелый Эрехтей (В)
… Ночь взглянула мне
в лицо. Чёрны ветви
кипариса. А у ног,
свернув кольцо, Спит
театр

Диониса (Г)



Ответ:

Буквенное обозначение пропуска в тексте	А	Б	В	Г
Пропущенное понятие	Акрополь	Пропилеи	Фронтон	Колонна
Цифровое обозначение соответствующего места на изображении	4	1	5	2

По 2 балла за каждый верный элемент ответа. Максимум за задание – 16 баллов

12 б.

3. Установите соответствие между историческими деятелями и событиями, связанным с ними. К каждому элементу первого столбца подберите соответствующий элемент из второго столбца.

Исторические деятели	**События**
А) Тиберий Гракх 4	1) принятие титула принцепса
Б) Нерон 5	2) написание трактата "О галльской войне"
В) Октавиан Август 1	3) написание поэмы "Энеида"
Г) Юлий Цезарь 2	4) проведение аграрной реформы, крупные земельные перераспределения
Д) Вергилий 3	5) один из крупнейших пожаров в Риме
Е) Публий Корнелий Сципион 6	6) успешные военные действия против Карфагена

Максимум за задание – 12 баллов.

12 б.

4. В 2004 г. до н.э. купец из г. Ур отправился с торговым караваном в Финикию. Было ему 40 лет. За год до отъезда у него родился сын. Через 2 года купец вернулся домой. В каком году родился купец? В каком году родился его сын? В каком году вернулся купец? Решение запишите.

Решение:

купец родился 2044 году до нашей эры

родился сын 2005 году до н.э

вернулся купец 2002 года до н.э

6 б.

За каждый ответ-2 балла. **Максимум 6 баллов за задание**

5. Исключите лишнее и объясните свой выбор.

1). Древляне, поляне, франки, радимичи, кривичи.

2). Холоп, рядович, тысяцкий, челядин, закуп.

3). Капище, идол, Перун, монах, масленица.

в первом ряду выписал франки потому что один из племен которые не относятся славянским племене

тысяцкий это слово лишне потому что это начальника военного ополчения остальные рады

монах потому человек которые поклонятся богу

1 балл за исключение лишнего, 3 балла за пояснение выбора. **Максимум 10 баллов.** 9 б.

6. Прочитайте рассказ финикийского моряка, который побывал в Индии. Напишите, о каких чудесах этой страны рассказано в тексте, заменив цифры словами (всего 14 баллов: 2 балла за каждую позицию).

Наконец мы пристали к зелёному берегу и вступили в благоуханный край. Да, там вправду пахнет всё: воздух, деревья и особенно пища, в которую жители бросают разноцветные порошки или маленькие шарики - горькие, кислые, сладковатые; так они могут из обычной муки сделать сто лепёшек разного вкуса (1). Хотя и мука у них не обычная: они растирают её из зёрен, выращенных ими на зелёных кустиках, по колено в воде (2).

В этом краю всё диковинно: люди собирают с кустов белые лёгкие комочки и потом одеваются в них (3); мёд у них твёрдый, как смёрзшийся песок, и так же хрустит на зубах(4). Коровы заходят в любой дом, едят чужую еду, и никто их не гонит (5).

Народу в этом крае - как морского песка! И лучше с ними не воевать, потому что они не только числом велики, но и умелы в боях. Самые главные воины у них ростом не меньше трёх метров, умные и преданные, с кожей, прочной, как железо, с толстыми мощными ногами (6). А полководцы воюют быстро и уверенно, потому что могут легко сосчитать и записать количество своих войск с помощью закорючек во много раз короче и проще египетских (7).

1	прямости
2	Рис
3	хлопок
4	сахар
5	священное животное
6	слон
7	индийские цифры

14 б.

7. Заполните пропуски в тексте.**(8 баллов)**

Придя на территорию Римской империи, варвары, большинство которых составляли 1 Германцы, поселились небольшими общинами. Религия пришельцев была 2 язычество, но со временем многие племена приняли христианство.

Основным занятием варваров было 3 скотоводство земледелие. Всю землю они делили на две части. Каждый год использовалась лишь половина её, а другая половина «отдыхала». Такой способ обработки земли называется 4 двуполье.

8 б.

У варваров, расселившихся на завоёванных землях, 5 соседская община со временем уступила место 6 родовой общине. С переходом к частной собственности на землю среди варваров усилилось 7 неравенство.

Военные вожди, захватывали в свои руки власть в племенах и становились 8 они становились королями.

8 б.

8. Отметьте расселение варварских германских племён на территории бывшей Римской империи используя карту. **(Максимум 5 баллов)**

Вандалы, франки, остготы, англосаксы, вестготы.

1. вестготы
2. англосаксы
3. франки
4. Остготы
5. Вандалы

5 б



9. Массовое передвижение варварских племѐн, их вторжение на территорию Римской империи называется...

Ответ: гиннов, гермонцев
(2 балла)

10. Назовите **коренные** народы, населяющие территорию нашего края
Максимум **-3 балла**

Ответ: шорцы телеуты кумандицы

1 б.

11. Укажите порядковые номера медалей, которые связаны с событиями Великой Отечественной войны 1941–1945 гг.



1

2

3

4

5



6

7



8

Ответ: 4

1б.

846(1006)